نام و نام خانوادگی

خانه ریاضیات غرب تهران

تمرین هفته ۳ – ریاضی پایه دوم – خانم آقایی



مطالعه سوالات حل شده در کلاس



۱. در کدام شکل زیر تقارن چهار قسمتی وجود دارد ؟

الف)  ب)  ج)  د) 

۲. تفاوت دو شکل مقابل در چیست ؟



الف) تعداد ضلع ها ☐ ب) تعداد گوشه ها ☐

ج) اندازه ی ضلع ها ☐ د) مورد الف و ب درست است. ☐

۳. به خطی که شکل را به دو نیمه ی مساوی تقسیم کند ..... می گویند



الف) صاف☐ ب) تقارن ☐ ج) نیم خط☐ د) پاره خط☐

۴. کدام شکل زیر خط تقارن دارد ؟



الف)  ب)  ج) 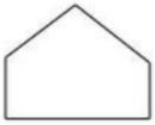 د) 

۵. نیمه ی دیگر فرش را با کمک شابلون کامل کن .



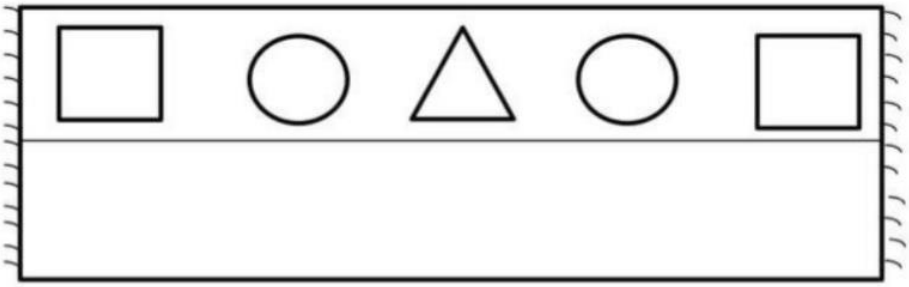

۶. چند دقیقه به ساعت ۴ مانده است ؟ ..... دقیقه

ساعت ..... و ..... دقیقه است .



۷. دخترم، با یک خط این مستطیل را به دو مثلث تبدیل کن .





نام و نام خانوادگی

خانه ریاضیات غرب تهران

تمرین هفته ۳ – ریاضی پایه دوم – خانم آقایی

۸. با ۲ خط، مربع را به ۴ مربع هم اندازه تبدیل کن.



۹. در جاهای خالی علامت مناسب بگذار . (< = >)

۴۰ + ۲۰ ☐ ۸۰ – ۲۰

۴ ده تایی و ۳ یکی ☐ ۳ دسته ی ده تایی و ۴ یکی

(۷ + ۲) + ۸ ☐ ۵ + (۲ + ۸)

۳۰ – ۶۰ ☐ ۵ + ۱۰ + ۲۰



۱۰. الگوی عددی زیر را ادامه بده .

۱۵ – ۱۷ – ۲۰ – ..... – ..... – .....

۸۲ – ۷۲ – ..... – ..... – .....

۳۲ – ۳۵ – ۳۹ – ..... – .....

+۳ +۴ +۵



۱۱. مینا ۲۵ ریال و زهرا ۶۷ ریال پول دارند . آن ها روی هم چند ریال پول دارند ؟ (فرآیندی)



۱۲. اعداد ۲۳ ، ۴۵ ، ۱۹ ، ۳۵ را روی محور نشان بده .



۱۳. زمان های زیر را روی هر ساعت نشان بده .





۱۳- زمانی را که ساعت نشان می دهد به دو صورت نشان بده .



ساعت ..... و ..... دقیقه

ساعت .....



ساعت ..... و ..... دقیقه

ساعت .....

۴۴۹۶۶۸۶۲
۴۴۹۶۶۸۶۳
WWW.TEHRANMATH.IR
WWW.TEHRANMATH.COM
پیامک: ۰۲۱۴۴۹۶۶۸۶۲